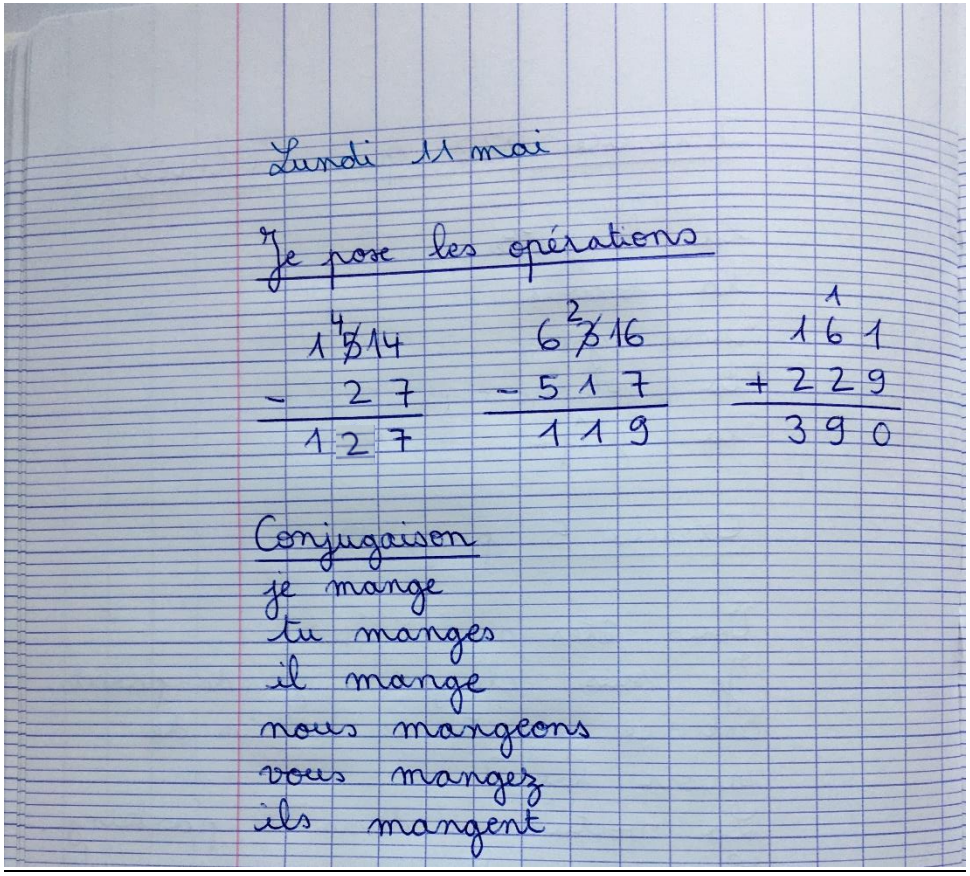

Lundi 11 mai

Je pose les opérations

$$\begin{array}{r} 1\,{}^{4}\cancel{3}14 \\ -\quad 27 \\ \hline 127 \end{array} \qquad \begin{array}{r} 6\,{}^{2}\cancel{3}16 \\ -\,517 \\ \hline 119 \end{array} \qquad \begin{array}{r} {}^{1} \\ 161 \\ +\,229 \\ \hline 390 \end{array}$$

Conjugaison

je mange
tu manges
il mange
nous mangeons
vous mangez
ils mangent

Calcul mental

85+300=385, 200+69=269, 700+6=706, 45+300=345,

40+500=540, 98+400=498

Exercice BLED p.109 exercice 367

Après les pluies, les rivières sont en crue.

Angelo est le roi de la pizza italienne.

Nous sommes sur le trottoir de la rue des Pervenches.

Tu es chez toi.

Pourquoi sommes-nous de mauvaise humeur ? Pourquoi êtes-vous de mauvaise humeur ?

Je suis en tenue de sport pour jouer au football.

Relie chaque animal à sa phrase.

A	C'est moi le roi des animaux !	1	La girafe
B	Je suis si gros, je vis si longtemps.	2	L'éléphant
C	Ma carapace me protège de toutes les attaques.	3	Le singe
D	Avec mon très long cou, c'est pourtant moi qui domine tous les animaux.	4	Le lion
E	Mais il n'y a pas plus malin, plus agile ni plus drôle que moi.	5	La tortue
F	Aucun de vous ne peut voler dans le ciel.	6	Le perroquet
G	Mon venin est si puissant que je pourrais tuer chacun d'entre vous.	7	Le serpent

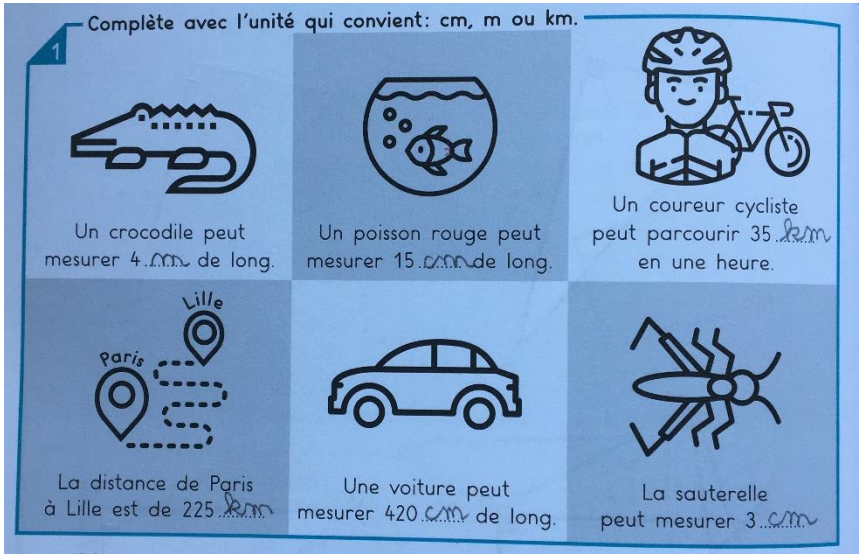

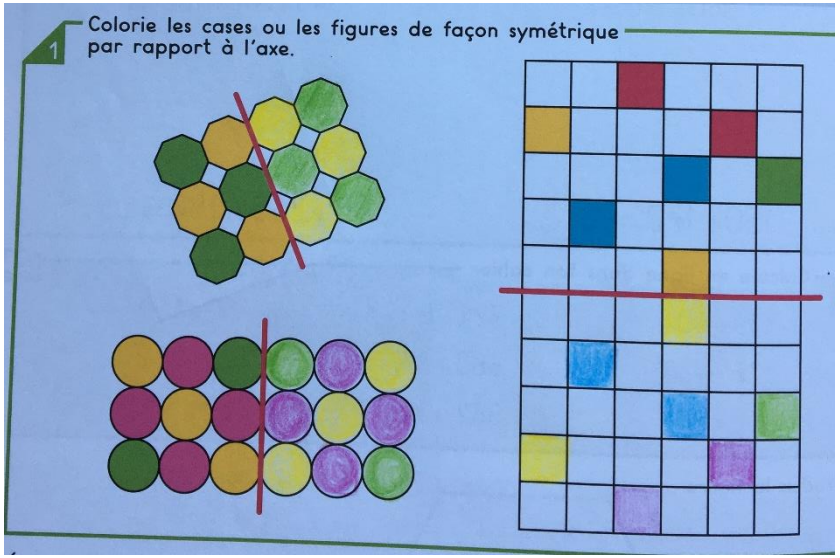

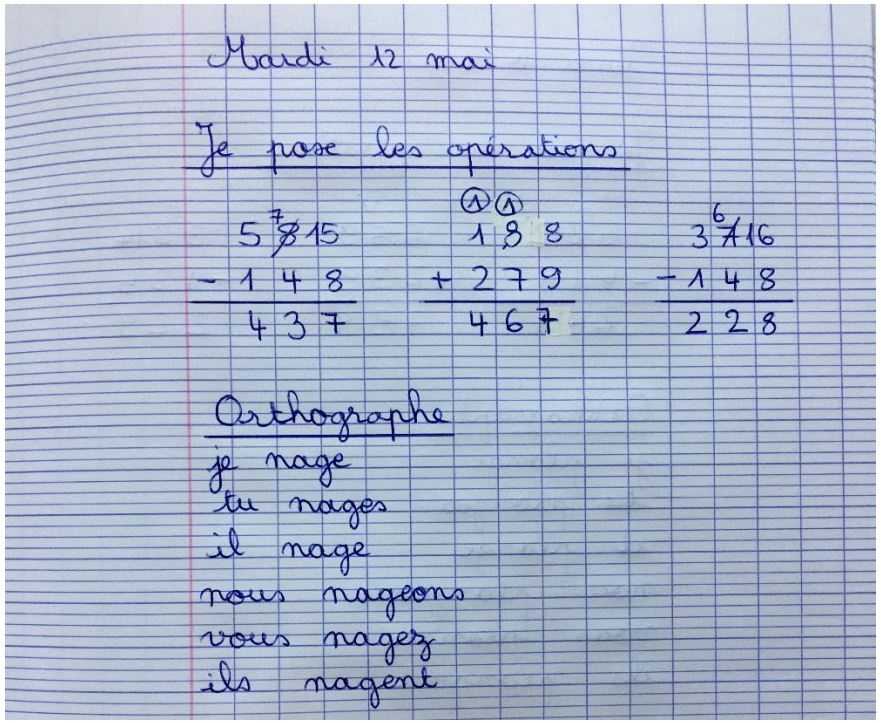

Calcul mental

6c+3c=900, 2c+7c=900, 400+500=900, 300+200=500, 800+100=900, 2c+4c=600

Exercice BLED page 109 exercice 368.

L'éléphant d'Afrique ont de plus grandes oreilles que celui d'Asie.

Nous avons le fou rire en regardant ce film comique.

Quand j'ai peur, j'ai des frissons le long du bras.

Vous avez une place gratuite pour la prochaine séance.

Tu as un pansement sur la cheville gauche.

Résous le problème.

2 La factrice parcourt 5 km par jour.
Quelle distance parcourt-elle en 4 jours?

Je cherche.

5 km 5 km 5 km 5 km

4 x 5 = 20

Je réponds.

Elle parcourt 20 km.

Place les points noirs de façon symétrique par rapport à l'axe.

2

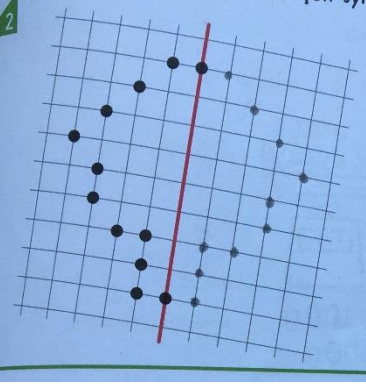

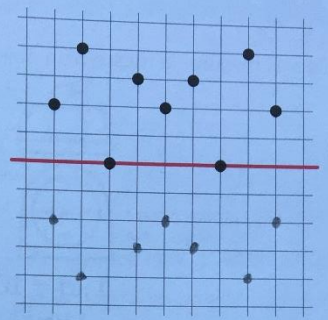

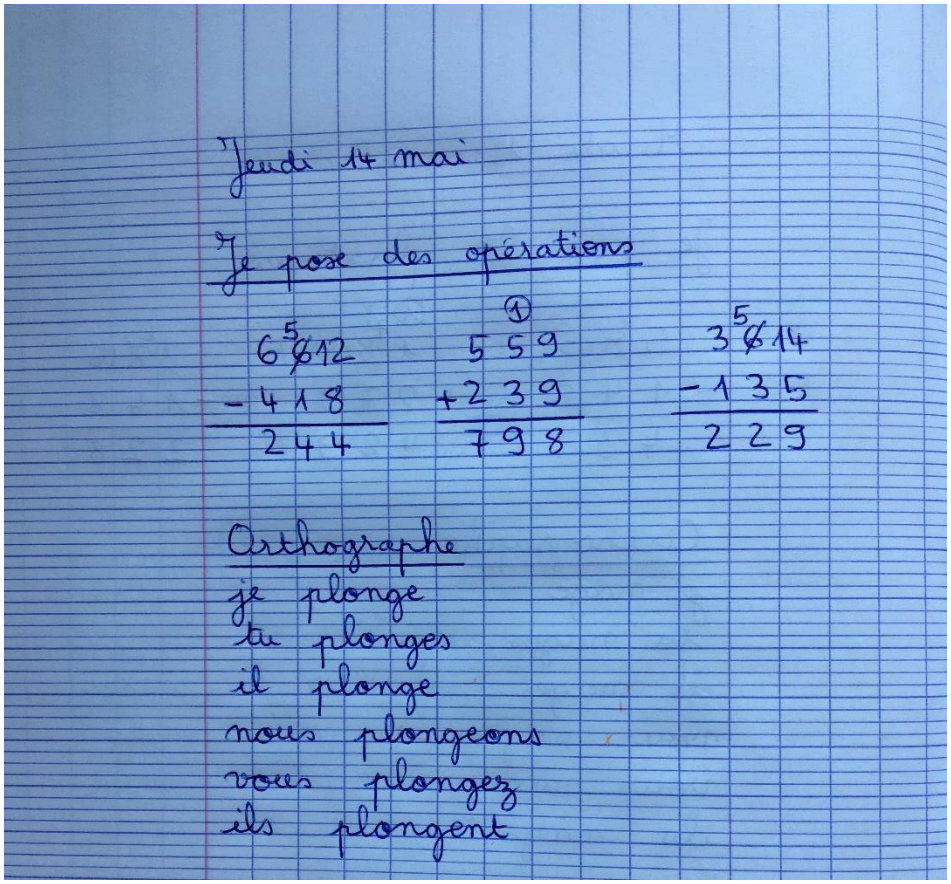

Jeudi 14 mai

Je pose des opérations

$6\overset{5}{\cancel{8}}12$	$\overset{1}{5}59$	$3\overset{5}{\cancel{8}}14$
-418	$+239$	-135
244	798	229

Orthographe

je plonge
tu plonges
il plonge
nous plongeons
vous plongez
ils plongent

Calcul mental

151+200=351, 300+632=932, 452+300=752,
245+400=645, 304+500=805, 300+570=870

BLED 369 page 109

Tu es au tableau et tu es interrogé par la maîtresse.

Je suis sans réaction devant ce problème : il est trop difficile.

Le présentateur de télévision a la parole facile.

Pour une fois, vous êtes de notre avis.

Nous avons des images représentant des animaux sauvages.

Les coureurs cyclistes ont des bidons sur leur vélo.

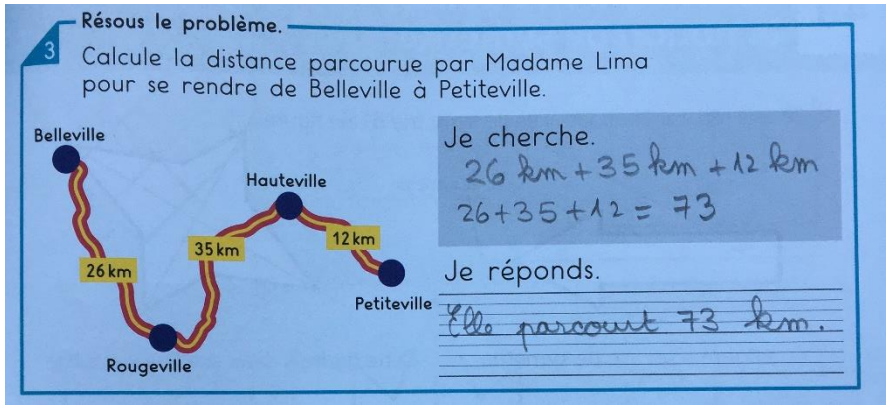

3 Résous le problème.

Calcule la distance parcourue par Madame Lima pour se rendre de Belleville à Petiteville.

Je cherche.
26 km + 35 km + 12 km
26+35+12 = 73

Je réponds.
Elle parcourt 73 km.

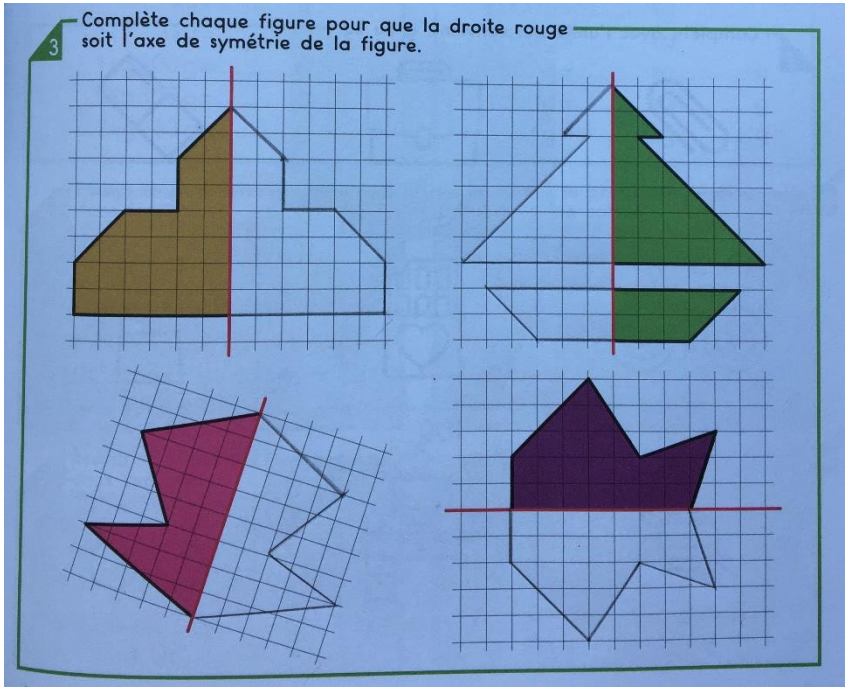

3 Complète chaque figure pour que la droite rouge soit l'axe de symétrie de la figure.

Vendredi 15 mai

Je pose des opérations

$3\overset{6}{\cancel{7}}14$	605	$3\overset{8}{\cancel{9}}16$
-125	$+234$	-248
249	839	148

Géométrie

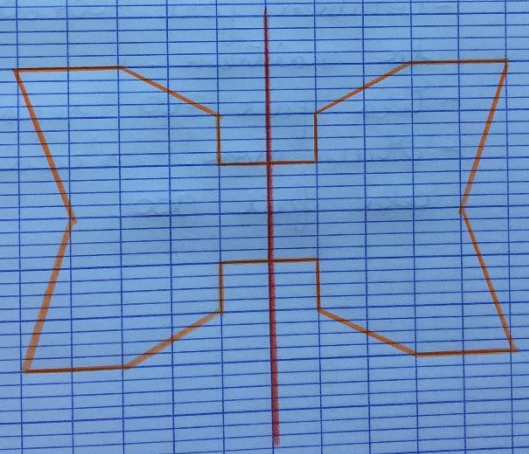

Orthographe

je range
tu ranges
il range
nous rangeons
vous rangez
ils rangent

Ecriture

- Combien font 300+600 ? demande la maîtresse.
- Cela fait 700, répond Sébastien.
- Mais non ! s'exclame Lili, cela fait 900.

Résous le problème.

4 Les coureurs d'une course à pied doivent effectuer 6 fois un circuit de 3 kilomètres.
Quelle distance les coureurs parcourent-ils durant la course ?

Je cherche.

3 km 3 km 3 km
3 km 3 km 3 km

6 × 3 = 18

Je réponds.

Ils parcourent 18 km.