Lundi 11 mai 2020

<table>
<tr>
<td>FRANÇAIS
-
Grammaire</td>
<td>
<u>Exercice sur le texte de lecture « un voisin loufoque » manuel A portée de mots, page 26</u> :
Retrouve les adjectifs qui permettent de faire le portrait de M. J. L. Garou.
Il a des cheveux sombres
Il a un menton pointu
Il porte des lunettes noires
Sa voix est étrange
Il a des sourcils en broussaille
Il a des dents longues
Ses yeux sont jaunes et fendus
</td>
<td>Petit cahier vert
15 minutes</td>
</tr>
<tr>
<td>FRANÇAIS
-
Orthographe
(1)</td>
<td>
a) Classe les mots que tu as lu ci-dessus dans le tableau :
<table>
<tr>
<td>  j</td>
<td> ge</td>
<td>  gi</td>
</tr>
<tr>
<td>jeudi
jamais
un jardinier
une jambe
janvier
une journée</td>
<td>une image
un singe</td>
<td>un gilet
un régime</td>
</tr>
</table>
b) Je complète avec les mots classés dans le tableau ci-dessus.
Cet évènement s’est passé le jeudi 18 janvier. – Nous passerons la journée de dimanche dans un jardin : le jardinier nous montrera son travail. – Nous dessinons l’image d’un singe suspendu à une branche.
</td>
<td><u>1 :</u> à l’oral
5 minutes

Aide d’un adulte

<u>2 :</u> Petit cahier vert
10 minutes</td>
</tr>
<tr>
<td>FRANÇAIS
-
Conjugaison</td>
<td>
<u>Le verbe AVOIR</u>
L’éléphant d’Afrique a de plus grandes oreilles que celui d’Asie. Nous avons le fou rire en regardant ce film comique. A la vue d’une araignée, j’ai des frissons le long des bras. Vous avez une place gratuite pour la prochaine séance. Tu as un pansement sur la cheville gauche.
</td>
<td></td>
</tr>
</table>

MATHEMATIQUES **-** **Calcul mental**	**Ajouter ou soustraire des centaines entières à un nombre : exercice à faire dans le cahier.** 500 + 400 = **900** 832 – 300 = **532** 600 – 200 = **400** 987 – 500 = **487** 250 + 600 = **850** 372 + 500 = **872** 740 – 300 = **440** 409 + 300 = **709** 700 – 500 = **200** 905 – 600 = **305** 580 – 400 = **180** 763 – 700 = **63**	
MATHEMATIQUES **-** **Nombres et calculs**	 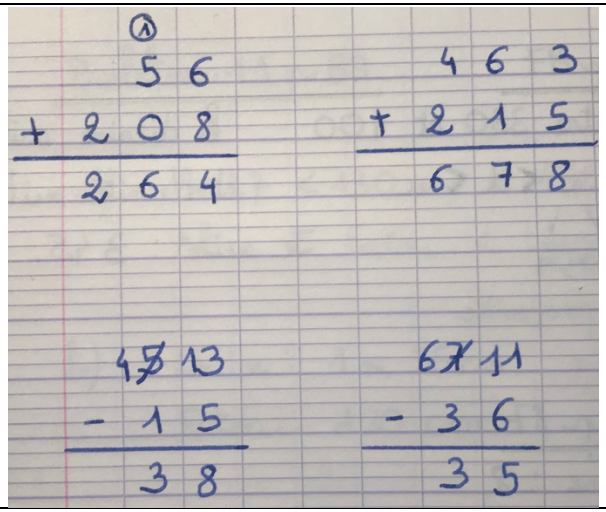	Fichier de mathématiques + Petit cahier vert 5 + 10 minutes
MATHEMATIQUES **Résolution de problèmes**	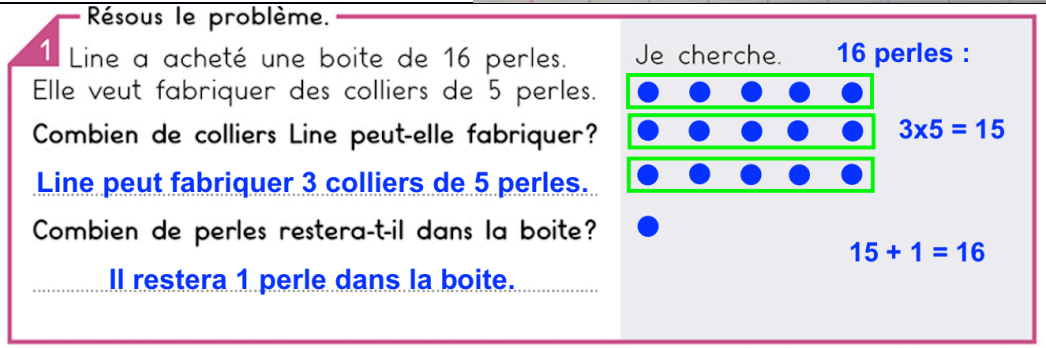 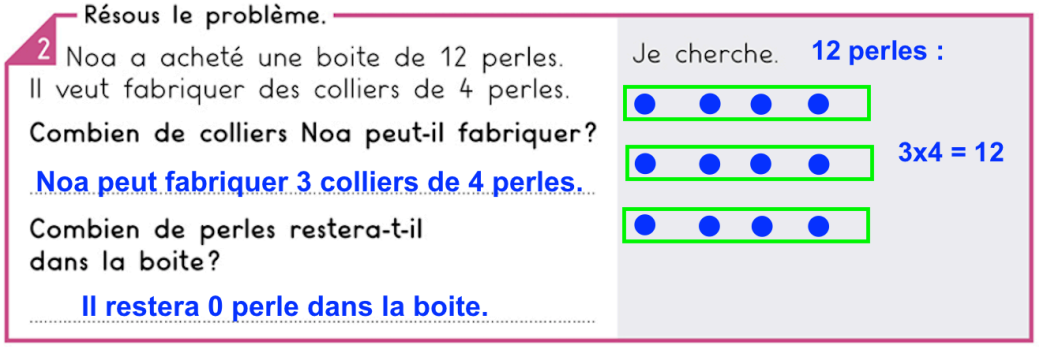	Fichier de maths 15 minutes

Mardi 12 mai 2020

Domaine	Propositions d'activités pour entretenir les acquis et poursuivre les apprentissages.	Modalités de travail
FRANÇAIS **-** **Écriture**	 **1.** Qu'y a-t-il dans le jardin ? **Dans le jardin, il y a : trois abeilles, un oiseau, deux papillons et un escargot.**  **2.** Quels véhicules sont garés sur le parking ? **Sur le parking, il y a : un tracteur, une voiture, deux motos et trois camion.**	Petit cahier vert 20 minutes
Orthographe **(2)**	**<u>2) Exercices dans le petit cahier vert :</u> Je complète par *g* ou *ge* :** Il est très sa**ge** – Ce pi**ge**on man**ge** dans ma main. – Le chasseur tue le **g**ibier. – Le Petit Chaperon rou**ge** habite dans un petit villa**ge**. – Nous boirons de l'oran**ge**ade.	1 : à l'oral 15 minutes 2 : Petit cahier vert 10 minutes

MATHEMATIQUES **-** **Nombres et calculs**	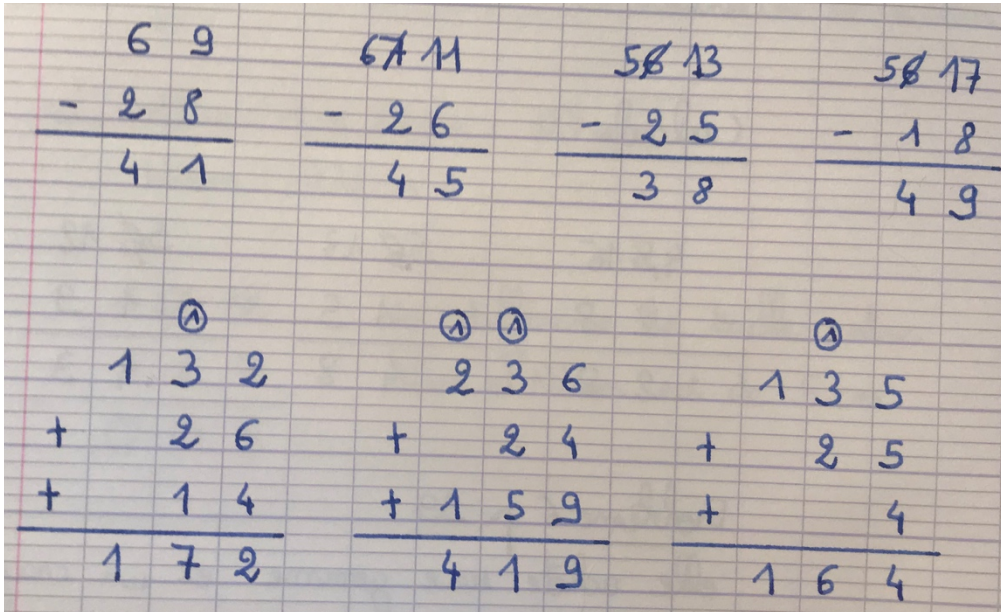	Fichier de mathématiques 15 minutes

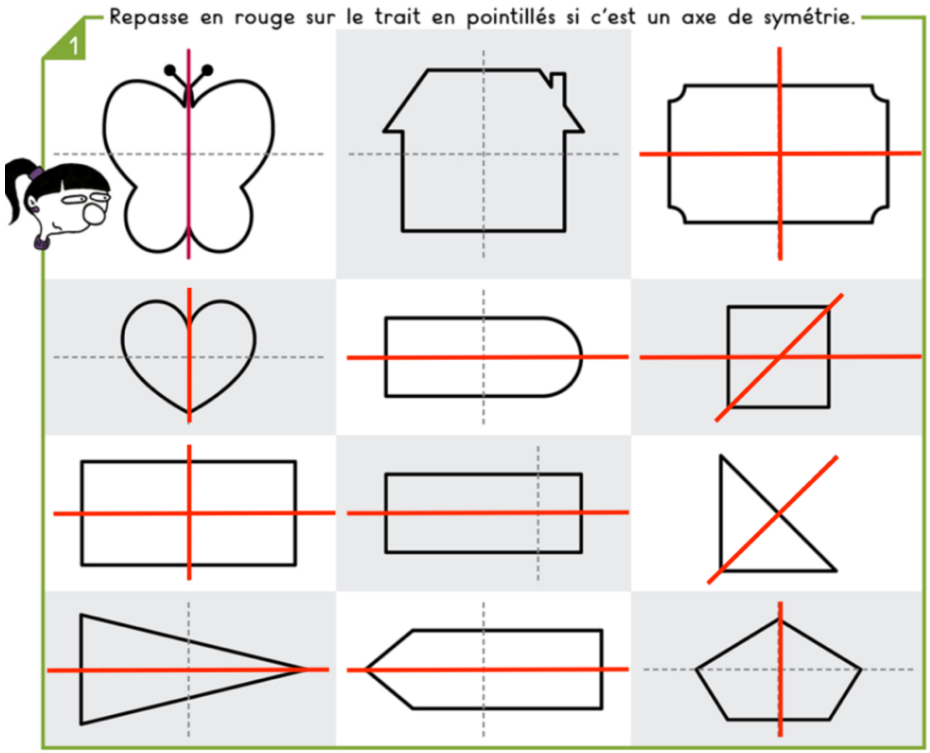
1 Repasse en rouge sur le trait en pointillés si c'est un axe de symétrie.

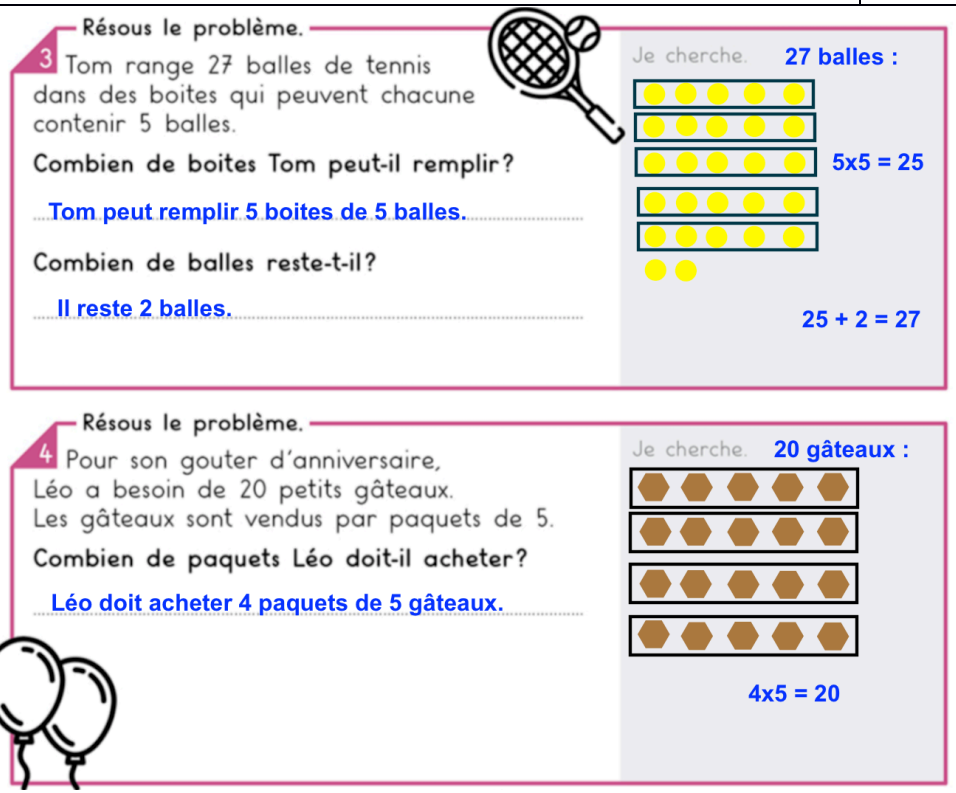
3 Résous le problème.
Tom range 27 balles de tennis dans des boites qui peuvent chacune contenir 5 balles.
Combien de boites Tom peut-il remplir?
Tom peut remplir 5 boites de 5 balles.
Combien de balles reste-t-il?
Il reste 2 balles.
Je cherche. 27 balles :
5x5 = 25
25 + 2 = 27
4 Résous le problème.
Pour son gouter d'anniversaire, Léo a besoin de 20 petits gâteaux. Les gâteaux sont vendus par paquets de 5.
Combien de paquets Léo doit-il acheter?
Léo doit acheter 4 paquets de 5 gâteaux.
Je cherche. 20 gâteaux :
4x5 = 20