Correction mardi 5 mai 2020

Domaine	Déroulement
Numération	**Objectif :** comparer des nombres à trois chiffres **Consigne :** comparer et complète avec les signes <,> ou =

2 Consigne: Compare et complète avec les signes < , > ou =.

ex

89	<	403	577	>	377	798	<	978
456	>	158	229	>	133	045	=	45
520	>	502	374	<	734	421	<	711
348	<	483	902	>	98	329	<	339

Géométrie	**Objectif :** identifier un rectangle **Consigne :** fais l'exercice 1p.84 et l'exercice 2 p.84 de ton fichier de mathématiques

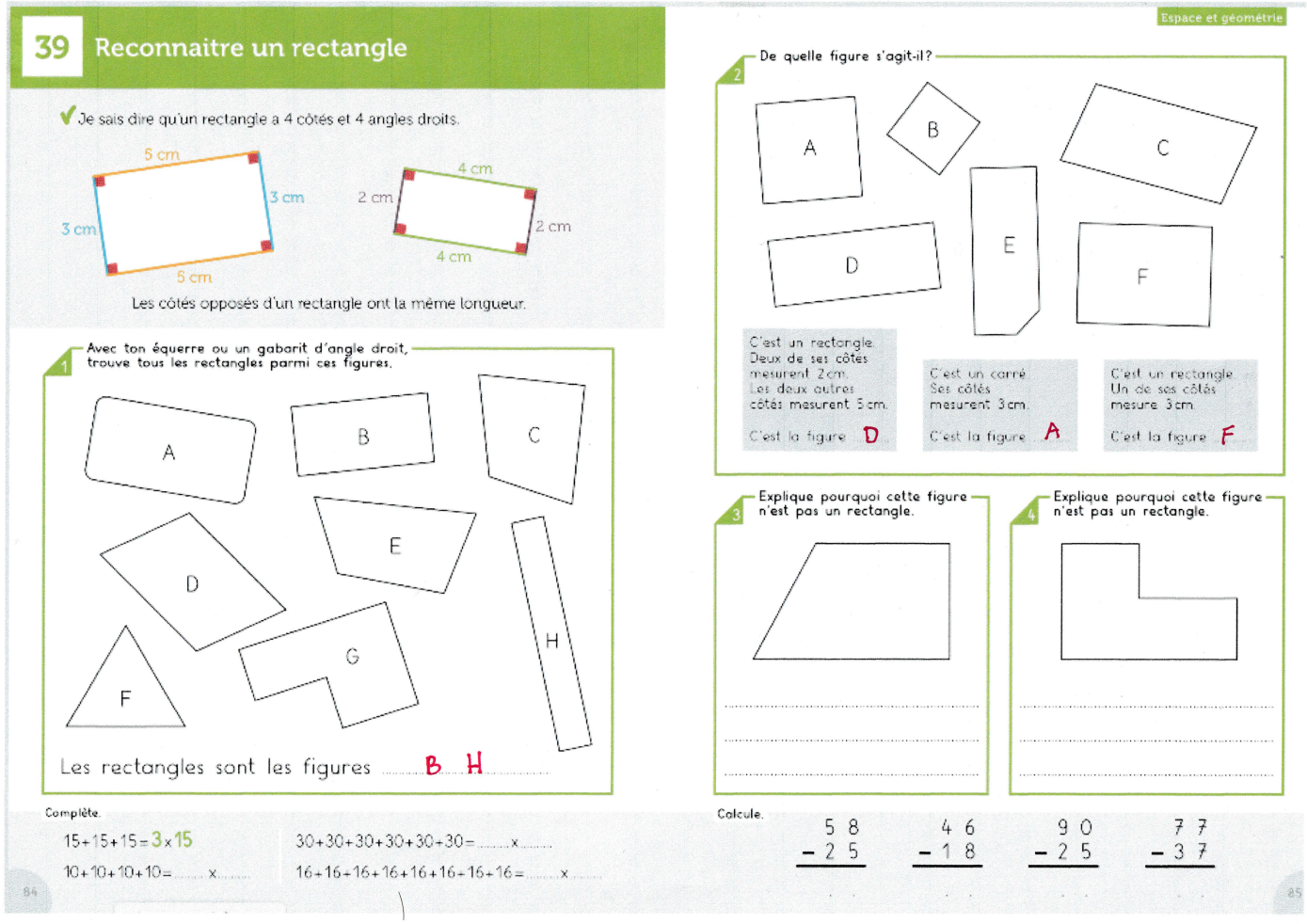

39 Reconnaitre un rectangle

✓ Je sais dire qu'un rectangle a 4 côtés et 4 angles droits.

5 cm, 3 cm, 3 cm, 5 cm — 4 cm, 2 cm, 2 cm, 4 cm

Les côtés opposés d'un rectangle ont la même longueur.

1 Avec ton équerre ou un gabarit d'angle droit, trouve tous les rectangles parmi ces figures.

A B C D E F G H

Les rectangles sont les figures B H

Espace et géométrie

2 De quelle figure s'agit-il ?

A B C D E F

C'est un rectangle. Deux de ses côtés mesurent 2 cm. Les deux autres côtés mesurent 5 cm. C'est la figure D

C'est un carré. Ses côtés mesurent 3 cm. C'est la figure A

C'est un rectangle. Un de ses côtés mesure 3 cm. C'est la figure F

3 Explique pourquoi cette figure n'est pas un rectangle.

4 Explique pourquoi cette figure n'est pas un rectangle.

Complète.

15+15+15 = 3 x 15

10+10+10+10 = ... x .....

30+30+30+30+30+30 = ... x .....

16+16+16+16+16+16+16+16 = ... x .....

Calcule.

58 − 25 = ..

46 − 18 = ..

90 − 25 = ..

77 − 37 = ..

84 85

Orthographe	**Objectif :** connaitre les deux valeurs de la lettre s

2. a) Je recopie les mots suivants dans le tableau.

une église – une ardoise – une signature – un chanson – passer – une danse – un stylo – une piste – la mousse – une base – un oiseau – une chaise – une prison

Je prononce « z »	Je prononce « s »
une église	une signature
une ardoise	une chanson
une base	passer...
un oiseau	une danse
une chaise	un stylo
une prison	une piste
	la mousse

Grandeurs et mesures	**Objectif :** estimer, décomposer, convertir et ranger des longueurs en cm et m **1 m = 100 cm**

Exercice 1 ***Estime les longueurs en notant cm ou m.***



3 cm | 150 cm | 108 cm | 120 cm | 4 m

Exercice 2 ***Décompose les longueurs suivantes.***

150 cm = 1 m 50 cm

505 cm = 5 m 5 cm

898 cm = 8 m 98 cm

110 cm = 1 m 10 cm

375 cm = 3 m 75 cm

640 cm = 6 m 40 cm

Exercice 3 ***Convertis ces longueurs en cm.***

1m77 cm = 177 cm

7m5 cm = 705 cm

9m90 cm = 990 cm

3m10 cm = 310 cm

3m57cm = 357 cm

6m1cm = 601 cm

Exercice 4 ***Range les longueurs suivantes dans l'ordre décroissant.***

910 cm 6m10cm 779cm 4m11cm 479cm

910cm > 779cm > 6m 10cm > 479cm > 4m 11cm

Grammaire	**Objectifs :** Connaître l'emploi des pronoms personnels Remplacer un sujet du verbe par un pronom personnel

Exercice 1 ***Complète.***

Je suis la 1ère personne du singulier : .....je.....

Je suis la 3ème personne du singulier : ...il / elle / on...

Je suis la 2ème personne du pluriel : .....vous.....

Je suis la 1ère personne du pluriel : .....nous.....

Je suis la 2ème personne du singulier : .....tu.....

Je suis la 3ème personne du pluriel : .....ils / elles.....

Exercice 2 ***Remplace chaque sujet entre parenthèses par le pronom personnel qui convient.***

- *(Moi)* .....J'..... écoute l'histoire.
- *(Les marées noires)* ....Elles... polluent les plages.
- *(Jules)*....Il..... réveille ses parents.
- *(Toi et les gendarmes)* ..Vous..nettoyez la plage.
- *(Les bateaux)* .....Ils..... arrivent au port.
- *(Mario et moi)* ...Nous.....allons au cinéma.
- *(Les crabes)* .....Ils..... marchent de travers.
- *(Sophie et Yannick)* .....Ils.....vont au cinéma.

Calcul	**Objectif :** poser des additions de nombres à trois chiffres avec ou sans retenue **Consigne :** calcule

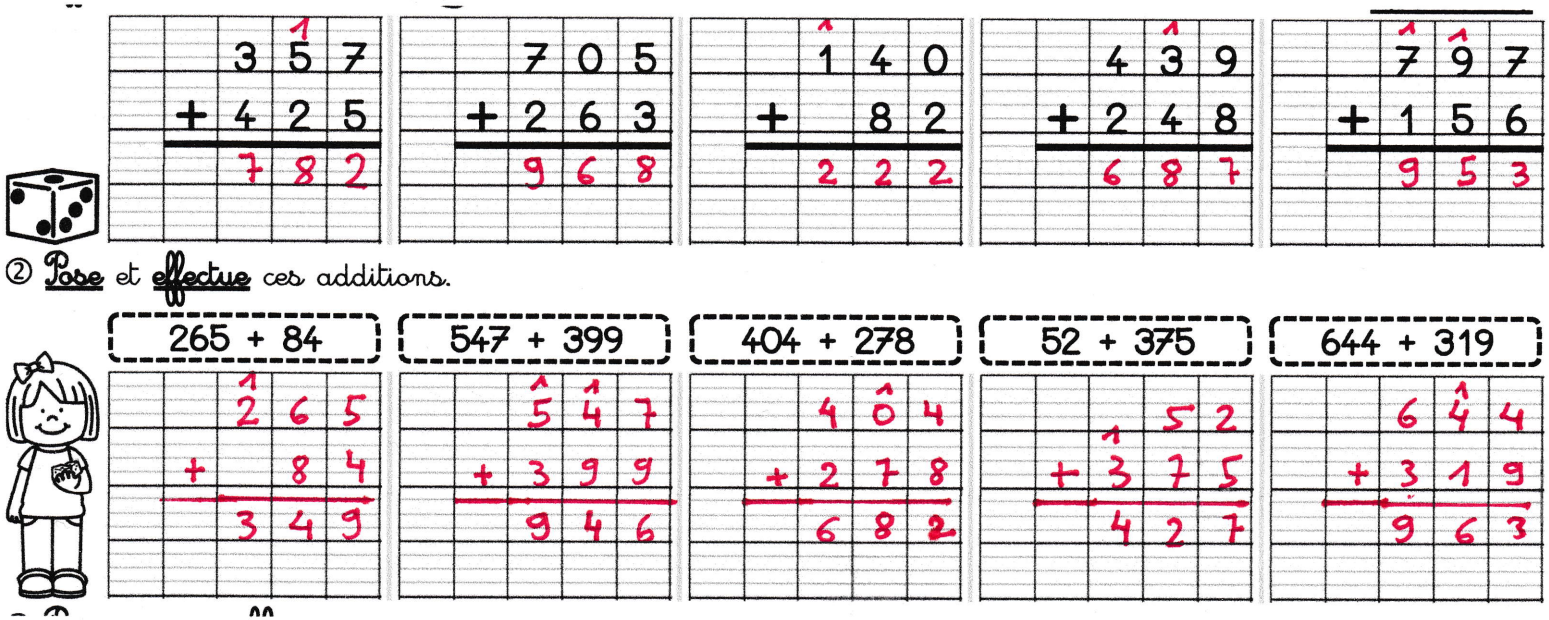

357	705	140	439	797
+ 425	+ 263	+ 82	+ 248	+ 156
782	968	222	687	953

② Pose et effectue ces additions.

265 + 84	547 + 399	404 + 278	52 + 375	644 + 319
265	547	404	52	644
+ 84	+ 399	+ 278	+ 375	+ 319
349	946	682	427	963

Calcul mental	**Objectif :** compléter un nombre à une centaine supérieure **Consigne :** complète

2 – Complète.

570 + 30 = 600	869 + 31 = 900
680 + 20 = 700	392 + 8 = 400
810 + 90 = 900	452 + 48 = 500
452 + 48 = 500	560 + 240 = 800
635 + 65 = 700	450 + 250 = 700
168 + 32 = 200	340 + 560 = 900
308 + 92 = 400	220 + 580 = 800
501 + 99 = 600	670 + 230 = 900